G. Buatois, Lycée Charlemagne, Pointe Noire, Congo, 2013/2014

Les cartes de l'inégalité :

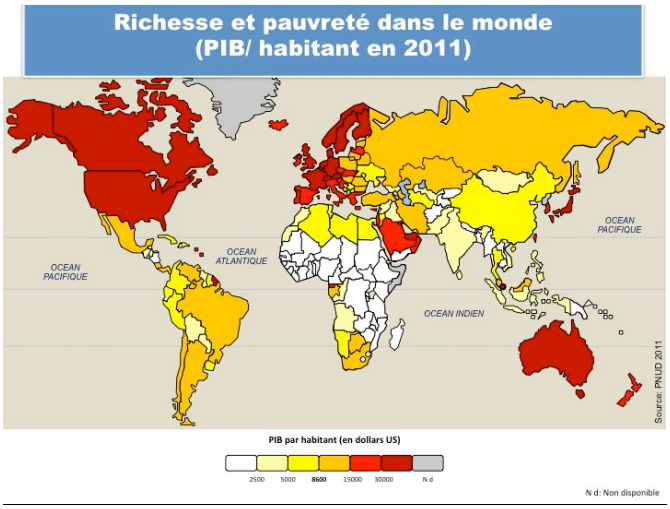

Cette carte indique ***la richesse d'un pays*** *par habitant (****c'est le PIB / hab****)*

1/ Indique par des flèches les *4 pays étudiés* : **le Japon, La Sierra Léone, La Finlande, l'Afghanistan**.

2/ Quels est le PIB/hab de chaque pays :
Japon : **Finlande :**
Afghanistan : **Sierra Léone :**

3/ Quels sont les **continents** les plus pauvres ?

……..

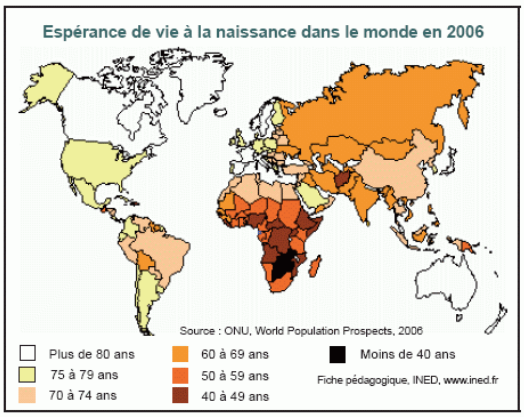

3/ Relève l'espérance de vie moyenne dans les 4 pays :
Japon : **Finlande :**
Afghanistan : **Sierra Léone :**

4/ Quels **liens peux tu faire entre la richesse par habitant** et **l'espérance de vie** dans un pays ? Pourquoi ?

……

……

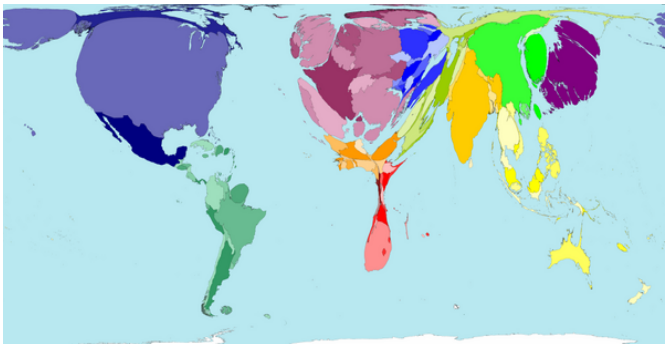

Cette carte par anamorphose indique les dépenses par pays dans l'éducation primaire.

3/ Comment sont représentés les pays ?

……..

4/ **Compare les 4 pays étudiés sur la carte.**

……..

Bilan Final :

Quels **liens** peux tu faire entre **le PIB par habitant**, **l'espérance de vie** et les dépenses dans l'éducation ?

……

……

……

……